TNUSRB

Psychology Test - 8

Q.1) B என்பவர் A யை விட 5 வயது குறைந்தவர். 7 வருடங்களுக்கு பின்பு Aயின் மூன்று மடங்கு வயதும் B யின் நான்கு மடங்கு வயதும் சமமாக இருந்தது, எனில் A யின் தற்போதைய வயது என்ன?

a) 13 வயது b) 8 வயது
c) 9 வயது d) 7 வயது

Q.2) வேறுபட்டதை தேர்ந்தெடுக்க?

a) கிராம் b) குவிண்டால்
c) டன்ஸ் d) கிலோமீட்டர்

Q.3) விடுபட்ட எண்ணைக் காண்க.

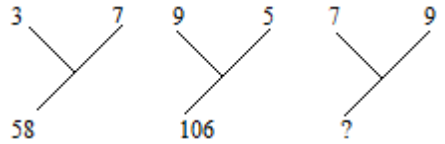

a) 130 b) 98
c) 120 d) 121

Q.4) ஒரு சக்கரத்தின் விட்டம் 56cm. அது 100 முறை சுழன்றால் செல்லும் தூரம் எவ்வளவு?

a) 112மீ b) 176 மீ
c) 352 மீ d) 168 மீ

Q.5) $\frac{1}{3+\frac{1}{2}}$ ன் மதிப்பு

a) 5/19 b) 19/5
c) 4/5 d) 5/4

Q.6) 7 ஆட்கள் ஒரு வேலையை 52 நாட்களில் செய்து முடிக்கின்றனர். அதே வேலையை 13 ஆட்கள் எத்தனை நாட்களில் செய்து முடிப்பார்கள்?

a) 20 நாட்கள் b) 13 நாட்கள்
c) 7 நாட்கள் d) 28 நாட்கள்

Q.7) X, Y மகனின் மகனிற்கு சகோதரியானால் X, Yக்கு என்ன உறவு?

a) பேரன் b) பேத்தி
c) சகோதரி d) சகோதரன்

Q.8) ஒரு லீப் வருடத்தில் உள்ள நாட்கள்

a) 365 b) 366
c) 364 d) 365 1/4

Q.9) SPAIN ஐ 68512 எனவும் FRANCEஐ 795243 எனவும் எழுதினால் AFRICA – வை எவ்வாறு எழுதலாம்.

a) 579145 b) 578915
c) 579845 d) 579235

Q.10) விளிம்பு 18cm கொண்ட கன சதுரத்திலிருந்து விளிம்பு 3cm உடைய எத்தனை கன சதுரங்களை வெட்டி எடுக்க முடியும்?

a) 36 b) 216
c) 218 d) 432

Q.11) VICTORY என்பதை YROTCIV என்று குறிப்பிட்டால் TRIUMPH என்பது எவ்வாறு குறிக்கப்படும்?

a) HPMTURT b) HPMUIPT
c) THPMUIR d) HPMUIRT

Q.12) 2014 செப்டம்பர் 6ம் தேதி சனிக்கிழமை எனில் 2064 செப்டம்பர் 6 என்ன கிழமை எனக் காண்க?

a) புதன் b) வியாழன்
c) வெள்ளி d) சனி

Q.13) ஒரு சங்கேத மொழியில் 'பச்சை' என்பது 'மஞ்சள்' எனவும், 'மஞ்சள்' என்பது 'சிவப்பு' எனவும், சிவப்பு என்பது 'ஆரஞ்சு' எனவும், 'ஆரஞ்சு' என்பது 'வெள்ளை' எனவும் மற்றும் வெள்ளை என்பது கறுப்பு எனவும் கொண்டால் விமானத்தின் கறுப்பு பெட்டி எந்த நிறத்தில் இருக்கும்?

a) கறுப்பு b) வெள்ளை
c) ஆரஞ்சு d) பச்சை

Q.14) ராமு மேற்கு நோக்கி நிற்கிறான். அவன் 45° கடிகார திசையில் திரும்புகிறான். அதே திசையில் மீண்டும் 180° திரும்புகிறான் மற்றும் அவன் மீண்டும் 135° கடிகார திசையில் திரும்பினால் அவன் எத்திசையை நோக்கி நிற்பான்?

a) தெற்கு b) வடமேற்கு
c) மேற்கு d) தென்மேற்கு

Q.15) அருண் என்பவர் ஒரு வரிசையில் முன்புறம் இருந்து 12வது நபராக உள்ளார். அதே போன்று வருண் என்பவர் பின்புறம் இருந்து 15வது நபராக உள்ளார். மேலும் வருண் என்பவர் அருணில் இருந்து 4வது நபராக உள்ளார் எனில் அந்த வரிசையில் மொத்த நபர்கள் எத்தனை பேர்?

a) 30 b) 31
c) 29 d) 32

Q.16) கொடுக்கப்பட்ட வார்த்தைகளுக்கு ஏற்ற படம் எது?
ஆப்பிள், கேரட், காய்கறி

a)
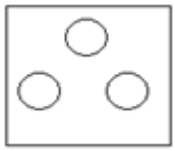

b)
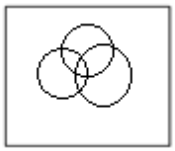

c)
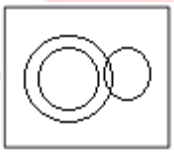

d)

Q.17) ஒரு ஊரில் உள்ள 50 வீடுகளில், 30 வீடுகளில் தொலைக்காட்சி பெட்டி இருக்கின்றது. 35 வீடுகளில் வானொலிப்பெட்டி இருக்கின்றது. எத்தனை வீடுகளில் இரண்டும் இருக்கின்றனர்?

a) 10 b) 15
c) 16 d)20

Q.18) Sin20°=X எனில் cos70°ன் மதிப்பு?

a) 90°- X b) X
c) 70° + X d) 0°

Q.19) நினைவின் வகை எத்தனை?

a) 1 b)2

c) 4 d)3

Q.20) ஒரு பகடை ஒரு முறை உருட்டப்படுகிறது. எனில் 3 ன் மடங்கு கிடைப்பதற்கான நிகழ்தகவு?

a) 1/2 b) 2/3

c) 1/3 d) 2/5

Q.21) புலன் காட்சிக்கு அடிப்படை

a) மொழி b) சிந்தனை

*c) கவனம் d) அறிவு

Q.22) உருகுதல் : திரவம் : : உறைதல் :

a) திடப்பொருள் b) திரவப் பொருள்

c) வாயு d) அனைத்தும்

Q.23) 1 மணிக்கும் 2 மணிக்கும் இடையே எந்த நிமிடங்களில் பெரிய முள்ளும் சிறிய முள்ளும் ஒன்றை ஒன்று தொடும்?

a) 1 hr $5\frac{5}{11}$ min b) 1 hr $6\frac{10}{10}$ min

c) 1 hr $10\frac{5}{10}$ min d) 1 hr $10\frac{10}{10}$ min

Q.24) பின்வரும் எண் தொடரில் விடுபட்ட எண்ணைக் காண்க.

20, 19, 17, ?,10, 5

a) 12 b) 13

*c) 14 d) 15

Q.25) தவறான ஒன்றை சுட்டுக

a) RAT b) CAT

c) SAT d) EAT

Q.26) 60° ன் நிரப்பு கோணம் என்ன?

a) 20° b) 40°

c) 30° d) 60°

Q.27) சார்பு ஆய்வாளர்கள் நவீன ஆயுதங்கள் கையாள தெரிந்து கொள்வது?

a) அவசியம் இல்லை

b) மிக பயனுடையது

c) எப்போதாவது மட்டும் பயன்படும்
d) காவலர்களுக்கு அதிகச் சுமை

Q.28) 10 குழுக்கள் கொண்ட ஒரு விளையாட்டு போட்டியில் ஒவ்வொரு குழுவும் மற்ற குழுவுடன் ஒருமுறை விளையாடுகிறது, எனில் மொத்தம் எத்தனை விளையாட்டு போட்டி நடைபெற்று இருக்கும்?

a) 44 b) 45
c) 46 d) 47

Q.29) நினைவும், கற்பனையும் எதன் அடிப்படையில் எழும்?

a) புலன்காட்சி d) ஆளுமை
c) திறமை d) மொழி

Q.30) கீழ்காணும் சமன்பாட்டில் எந்த இரு குறிகளை மாற்றினால் விடை சரியாக அமையும்?

5 + 6 ÷ 3 – 12 × 2 = 17

a) ÷ மற்றும் × b) + மற்றும் ×
c) + மற்றும் ÷ d) + மற்றும் –