EXAMS DAILY

TNUSRB
Psychology Test - 27

Q.1) விடுபட்ட எழுத்தைக் காண்க

D	E	G	J	N
W	N	F	?	S

a) T b) Y
c) Z d) B

Q.2) கீழ்கண்ட ஆங்கில வார்த்தைகள், ஆங்கில அகராதியில் வரிசைப்படுத்தப்பட்டால் மூன்றாவது வரும் வார்த்தை?

a) Amphibian b) Amorphous
c) Amphidextrous d) Ambiguous

Q.3) 10 ஆண்டுகளுக்கு பின்பு சங்கரின் வயது 10 ஆண்டுகளுக்கு முன்பு டேவிட்டின் வயதைப்போல இரு மடங்கு, தற்போது சங்கர் டேவிட்டை விட 9 வயது மூத்தவர் எனில், டேவிட் வயது என்ன?

a) 30 ஆண்டுகள் b) 32 ஆண்டுகள்
c) 35 ஆண்டுகள் d) 39 ஆண்டுகள்

Q.4) பின்வருவனவற்றில் தவறான எண்ணை கண்டுபிடி?
2>28>126>344>730>1331

a) 1331 b) 344
c) 730 d) 126

Q.5) P என்பவர் J ன் அப்பா. S என்பவர் N என்பவரின் அம்மா மற்றும் N என்பவர் Jன் சகோதரர் B என்பவர் S ன் மகன், C என்பவர் B ன் சகோதரி, எனில் Jஎன்பவர் C க்கு என்ன உறவு?

a) மகன் b) தாய்மாமா
c) சகோதரன் d) போதுமான தகவல் இல்லை

Q.6) சங்கேத மொழி குறியீட்டில் UNDER என்பது 6152 @ என்றும் DEAF என்பது 52 # 7 குறியிடப்பட்டால் “FRAUD” என்பது எவ்வாறு குறியிடப்பட வேண்டும்?

a) 7 @ # 65 b) @7 # 65
c) 7 @ # 56 d) 7 #@ 65

Q.7) சுமதி அவளுடைய அக்கா பிறந்தநாளை மார்ச் மாதம் 12 பின் ஆனால் 17க்கு முன் என்று கூறுகிறாள். ஆனால் அவளுடைய தம்பி அவர்களுடைய அக்கா பிறந்தநாளை மார்ச் மாதம் 14க்கு பின் ஆனால் 20க்கு முன் என்று கூறுகிறாள். எனில் அவர்களுடைய அக்கா பிறந்தநாள் எந்த தேதி?

a) மார்ச் 16 b) மார்ச் 15
c) மார்ச் 15 அல்லது 16 d) எதுவுமில்லை

Q.8) A என்பது ÷ எனவும், B என்பது x எனவும், C என்பது + எனவும் மற்றும் D என்பது – எனவும் கொண்டால் 20A 5 C 7 B4 D16 மதிப்பு?

a) 10 b) 14
c) 12 d) 16

Q.9) M க்கு கிழக்கில் மற்றும் Sக்கு தெற்கில் O உள்ளது. எனில் M க்கு எந்த திசையில் Sஉள்ளது?

a) கிழக்கு b) மேற்கு
c) வடகிழக்கு d) எதுவுமில்லை

Q.10) ஒட்டாவா : கனடா : : கான்பெர்ரா : ?

a) ஆஸ்திரேலியா b) கனடா
c) சூடான் d) பங்களாதேஷ்

Q.11) இன்று செவ்வாய்கிழமை எனில் 61 நாட்கள் கழித்து என்ன கிழமை எனக் காண்க?

a) வியாழன் b) வெள்ளி
c) சனி d) ஞாயிறு

Q.12) 10 மணி 30 நிமிடங்கள் என்ற நேரத்தில் பெரிய முள்ளுக்கும் சிறிய முள்ளுக்கும் இடையே அமையும் கோணத்தைக் காண்க.

a) 140° b) 155°
c) 135° d) 125°

Q.13) 160மீ நீளமுள்ள ஒரு ரயிலானது நிற்கும் மனிதனை 8 நொடிகளில் கடக்கிறது, எனில் ரயிலின் வேகம் என்ன?

a) 70 Km/hr b) 60 Km/hr
c) 55 Km/hr d) 72 Km/hr

Q.14) ஒருவர் தன்னிடம் உள்ள இனிப்புகளை சிறுவர்களுக்கு பகிர்ந்து அளிக்கிறார். ஒவ்வொருவருக்கும் 2 (அ) 3 (அ) 4 அளித்தால் ஒவ்வொரு முறையும் 1 மீதம் உள்ளது. ஆனால் 5 அளித்தால் மீதம் இல்லாமல் தீர்ந்து விடுகிறது எனில் அவரிடம் இருந்த மொத்த இனிப்புகள் எத்தனை?

a) 25 b) 26
c) 27 d) 28

Q.15) 52 சீட்டுகள் கொண்ட ஒரு கட்டில் ஒரு கார்டு எடுக்கப்படுகிறது. அந்த கார்டு face கார்டாக இருக்க நிகழ்தகவு என்ன?

a) 4/13 b) 5/13
c) 3/13 d) 4/12

Q.16) ஒரு உருளை வடிவ தொட்டியின் கொள்ளளவானது 1848மீ^{3} மற்றும் அதனுடைய விட்டமானது 14மீ எனில் அதனுடைய ஆழம் யாது?

a) 12மீ b) 14மீ
c) 15மீ d) 18மீ

Q.17) சுருக்க அமைப்பில் எழுதுக: $\frac{x^4+x^2+1}{x^2+x+1}$

a) x^2+x+1 b) x^2-x+1
c) x^2+2x+1 d) x^2+2-1

Q.18) 3 மணி நேரத்தில் 9 பெண்கள் 135 மாலைகளை தயாரிக்கின்றனர் எனில் ஒரு மணி நேரத்தில் 270 மாலைகளை தயாரிக்க தேவைப்படும் பெண்களின் எண்ணிக்கை?

a) 20 b) 54
c) 43 d) 19

Q.19) 30 மாணவர்கள் உள்ள ஒரு வகுப்பில் சராசரி வயது 14 ஆசிரியரின் வயதையும் சேர்த்துக்கொண்டால் சராசரி வயது ஒன்று கூடுகிறது. எனில் ஆசியரின் வயது என்ன?

a) 45 b) 50
c) 40 d) 55

Q.20) X-மாதம் ரூ.8,000 சம்பாதிக்கிறார் அதில் 80% ஐ வீட்டுக்காக செலவிடுகிறார் மீதியில் 20% கேளிக்கைகாக செலவிடுகிறார். அவரிடமுள்ள மீதித்தொகை என்ன?

a) ரூ.1200 b) ரூ.1250
c) ரூ. 1280 d) ரூ.1300

Q.21) கொடுக்கப்பட்ட படத்தில் விடுபட்ட எண்ணைக் காண்க?

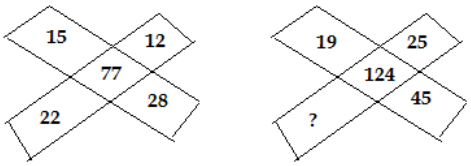

a) 30 b) 35
c) 20 d) 33

Q.22) ஒரு பூங்காவில் A,B,C,D மற்றும் E எனும் ஐந்து மாணவர்கள் வட்ட வடிவத்தில் அமர்ந்துள்ளனர். இவர்களில் A எனும் மாணவர் தென் மேற்கைப் பார்த்தும், D எனும் மாணவர் தென்கிழக்கை பார்த்தும் அமர்ந்துள்ளனர். B மற்றும் E எனும் மாணவர்கள் A மற்றும் D க்கு நேர் எதிராக உள்ளனர். மேலும் C எனும் மாணவர் D மற்றும் B க்கு சமதொலைவில் இருப்பின் C எனும் மாணவர் எத்திசையை நோக்கி இருப்பார்?

a) மேற்கு b) தெற்கு
c) வடக்கு d) கிழக்கு

Q.23) M,N,P,Q,R,S மற்றும் T என்ற ஏழு கல்வி நிறுவனங்களில் பயிலும் மாணவர்களின் பரவல் பின்வரும் வட்ட விளக்கப்படம் மூலம் கொடுக்கப்படுகிறது. எழு கல்வி நிறுவனங்களில் பயிலும் மொத்த மாணவர்களின் எண்ணிக்கை 27300 எனில் M மற்றும் S நிறுவனங்களில் பயிலும் மாணவர்களின் எண்ணிக்கை?

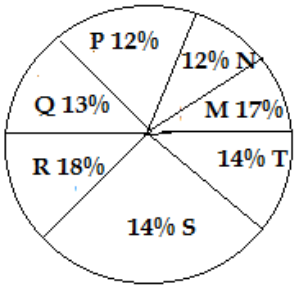

a) 8463 b) 7516
c) 9127 d) 9404

Q.24) நிரப்புக: 2,3,5,8,12,.....

a) 8 b) 4
c) 9 d) 17

Q.25) ஒரு கன சதுரத்தின் மூன்று விதமான தோற்றங்கள் கீழே கொடுக்கப்பட்டுள்ளது. எனில் A யின் எதிர்பக்கத்தில் உள்ள எழுத்து எது?

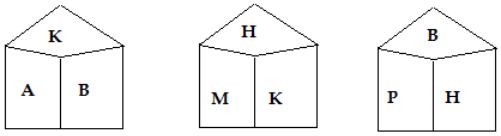

a) H b) P
c) B d) M

Q.26) UDANLIMAT என்பது TAMILNADU என்பதின் பிரதிபலிப்பானால் KARNATAKA வின் பிரதிபலிப்பு என்ன?

a) AKTANRARAK b) KATNARKAA
c) KARKANTA d) AKATANRAK

Q.27) ஓர் அணி 12 பந்தயங்கள் விளையாடி, 9 பந்தயங்களில் வென்றால், அவ்வணி வென்ற பந்தயங்களின் பின்னம்?

a) 1/4 b) 3/4
c) 1/3 d) 5/4

Q.28) கீழே கொடுக்கப்பட்ட வார்த்தைகளுக்கு ஏற்ற படத்தினை தேர்வு செய்க.
ஆசிரியர், நூலாசிரியர், விலங்குகள்

a)
b) 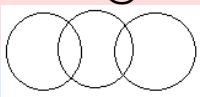
c)
d) 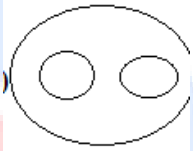

Q.29) 16 – 64> 9 – 36> 36 – 216> 49 – 343 பொருத்தமற்றது எது?

a) 16 - 64 b) 9 - 36
c) 36 - 216 d) 49 – 343

Q.30) MELT என்பதை ?÷*+ என்றும் TIME என்பதை +$?÷ என்றும் குறித்தால் LIME என்பதை எவ்வாறு குறிக்கலாம்.

a) *$?÷ b) *+#÷
c) *$?# d) *$÷?