TNUSRB
Psychology Model Test – 5

Q.1) ஒரு எண்ணின் சரிபாதியில் மூன்றின் ஒரு மடங்கில் ஆறில் ஒரு மடங்கு 10 எனில் அந்த எண்

a) 350 b) 360
c) 340 d) 375

Q.2) கீழே கொடுக்கப்பட்டவைகளில் எது 480 இன் 30% ன் 20% க்குச் சமம்?

a) 240 இன் 40% இன் 15%
b) 480 இன் 15% இன் 40%
c) 240 இன் 60% இன் 10%
d) 360 இன் 60% இன் 20%

Q.3) ரமேஷ் கிழக்கு திசையை நோக்கி 10km நடக்கிறான். பின்னர் வலப்புறமாக திரும்பி 10km நடக்கிறான். மீண்டும் அவன் வலப்புறமாக திரும்பி நடக்கிறான். பின்னர் 45° இடப்புறமாக நடக்கிறான் எனில் தற்போது அவன் நடக்கும் திசை என்ன?

a) வடமேற்கு b) வடகிழக்கு
c) தென்மேற்கு d) தென்கிழக்கு

Q.4) 46 மாணவர்களில் மாரிமுத்து மேலேயிருந்து 12ஆவது இடத்தில் உள்ளார், எனில் கடைசியிலிருந்து அவருடைய இடம் என்ன?

a) 33 b) 35
c) 36 d) 30

Q.5) கொடுக்கப்பட்டுள்ள குறியீடுகள் மற்றும் எண்களை மாற்றி சரியான விடையைத் தேர்ந்தெடுக்க.
× ஐ ÷ ஆகவும், ÷ ஐ × ஆகவும், 8 ஐ 4 ஆகவும் மற்றும் 4 ஐ 8 ஆகவும் மாற்றி எது சரியாக உள்ளது என தேர்ந்தெடுக்க.

a) 4 ÷ 8 × 4 = 6 b) 4 × 8 ÷ 8 = 36
c) 4 ÷ 8 + 6 = 38 d) 4 + 8 ÷ 6 = 52

Q.6) ஒரு மாதத்தில் 3வது நாள் செவ்வாய்கிழமை எனில் 21 லிருந்து 5வது நாள் என்ன கிழமையாக இருக்கும்?

a) செவ்வாய் b) திங்கள்
c) புதன் d) வியாழன்

Q.7) “CONEY” என்பது ஒரு குறிப்பிட்ட மொழியில் “EOYCN” என்றும் குறியிட்டால் “GUILT” என்பது எவ்வாறு குறியிடப்படும்?

a) TULGI b) LITGU
c) LUTGI d) IUTGL

Q.8) 18 : 10 இதனுடன் தொடர்புடைய எண்ணைக் காண்க

a) 20 : 9 b) 30 : 17
c) 26 : 12 d) 32: 17

Q.9) வேறுபட்ட ஒன்றைத் தேர்ந்தெடுக்க

a) சட்டை b) கால்சட்டை
c) பேண்ட் d) துணி

Q.10) மீராவைப் பார்த்து ராம் என்பவர், அவளுடைய அம்மாவின் ஒரே மகள் எனது மகள் என்று கூறுகிறார் எனில் ராம் மீராவிற்கு என்ன உறவு?

a) தந்தை b) சகோதரன்
c) கணவர் d) மகள்

Q.11) 12, 20, 38, 42, 56, 72 இவற்றில் தவறான எண்ணைக் காண்க

a) 20 b) 38
c) 56 d) 72

Q.12) __ tu __ rt __ s __ __ u s r t u __

a) rtusru b) rsutrr
c) rsurtr c) d) rsurts

Q.13) மோகனின் வயது அவரது மகனின் வயதைக் காட்டிலும் 5 மடங்கு. 4 வருடங்களுக்கு பிறகு இருவரின் வயதுகளின் கூடுதல் 68 எனில் தற்போது மகனின் வயது என்ன?

a) 12 b) 10
c) 5 d) 8

Q.14) கீழுள்ள வார்த்தைகளை பொருள் தரும் வகையில் வரிசைப்படுத்துக

1. படிப்பு 2. வேலை 3. தேர்வு 4. சம்பாதித்தல்
5. விண்ணப்பம்

a) 1, 2, 3, 4, 5 b) 1, 5, 3, 2, 4
c) 3, 1, 4,2, 5 d) 1, 3, 5, 2, 4

Q.15) ஆங்கில அகராதியில் நான்காவதாக இடம் பெறும் சொல் எது,?

a) Niece b) Nephew
c) Nest d) Nice

Q.16) தொடர்கள் : எல்லா ஆசிரியர்களும் மாணவர்கள் ஆகும்.
சில மாணவர்கள் டாக்டர்கள் ஆகும்.
சில டாக்டர்கள் ஆண்கள் ஆகும்.
முடிவு : i. சில மாணவர்கள் ஆசிரியர்கள் ஆகும்.
ii. சில ஆண்கள் மாணவர்கள் ஆகும்.

a) முடிவு i மட்டும் சரி
b) முடிவு ii மட்டும் சரி
c) முடிவு i அல்லது ii சரி
d) இரண்டும் தவறு

Q.17) * க்கு எதிராக உள்ள ‘குறி’ எது?

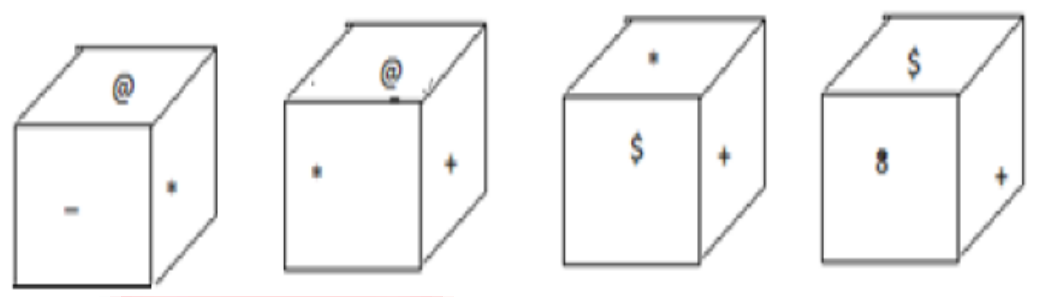

a) @ b) $
c) 8 d) +

Q.18) விடுபட்ட எண்ணைக் காண்க.

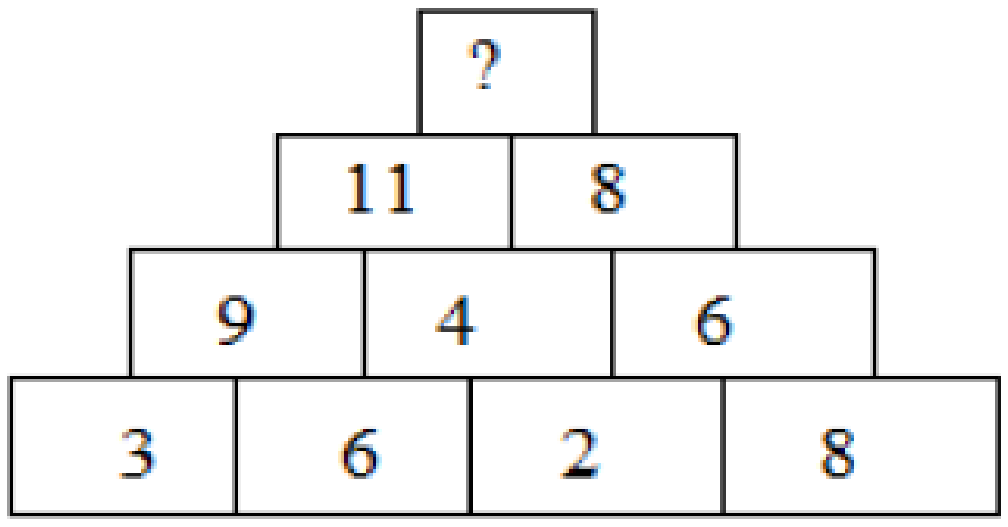

a) 18 b) 20
*c) 19 d) 9

Q.19) M, P, J, B, R, T மற்றும் F ஆகியோர் வட்ட வடிவில் வட்டத்தின் மையத்தை நோக்கி அமர்ந்துள்ளனர். B என்பவர் J க்கு இடப்புறம் மூன்றாவதாக அமர்ந்துள்ளார் மற்றும் J என்பவர் M க்கு இடப்புறம் இரண்டாவதாக அமர்ந்துள்ளார். P என்பவர் B க்கு இடப்புறம் மூன்றாவதாக அமர்ந்துள்ளார் மற்றும் R க்கு வலப்புறம் இரண்டாவதாக அமர்ந்துள்ளார். T என்பவர் M க்கு அருகில் (உடனடியாக) அமரவில்லை

i) T க்கு இடப்புறம் இரண்டாவதாக அமர்ந்திருப்பவர் யார்?

a) F b) M

c) P d) J

Q.20) விடுபட்ட எண்ணைக் காண்க.

6	40	4
3	12	3
7	?	2

a) 4 b) 51
c) 36 d) 22

Q.21) ஒரு குதிரை மற்றும் இரண்டு மாடுகளின் மொத்த விலை ரூ. 680. ஒரு குதிரையின் விலையானது ஒரு மாட்டின் விலையை விட ரூ. 80 அதிகம் எனில் குதிரை மற்றும் மாட்டின் விலையின் விகிதமானது?
a) 7:5 b) 5:7
c) 8:9 d) 9 : 8

Q.22) 9/21 ன் 35% மதிப்பு எவ்வளவு?
a) 0.25 b) 15
c) 16 d) 0.15

Q.23) Gum : Stick : : Needle : _____________
a) Cloth b) Prick
c) Tailor d) Stitch

Q.24) MADURAI என்பதை 66 குறித்தால் CHENNAIஐ எவ்வாறு குறிக்கப்படும்?
a) 52 b) 53
c) 54 d) 55

Q.25) அக்டோபர் முதல் நாள் வெள்ளிக்கிழமை எனில் நவம்பர் முதல் நாள் என்ன கிழமை?
a) திங்கள் b) செவ்வாய்
c) புதன் d) வியாழன்

Q.26) 6 மணி 45 நிமிடங்கள் என்ற நேரத்தில் பெரிய முள்ளுக்கும் சிறிய முள்ளிற்கும் இடையே அமையும் கோணத்தை காண்க.
a) 67.5° b) 66.5°
c) 62.3° d) 60.2°

Q.27) கொடுக்கப்பட்ட எண் 1234567890. இதில் ஒன்று மற்றும் பத்தாவது எண்கள் ஒன்றின் இடத்தில் மற்றொன்று என்று இடம் மாற்றப்படுகிறது.

இதே போன்று மூன்று – எட்டு, ஐந்து – ஆறு ஆகிய இடங்களில் உள்ள எண்கள் இடம் மாற்றப்படுகின்றன. எனில் இடமிருந்து 9வதாக எந்த எண் இருக்கும்.

a) 1 b) 3
c) 5 *d) 9

Q.28) நான்கு பெண்கள் ஒரு பெஞ்சில் வரிசையாக அமர்ந்துள்ளனர். சீதா என்பவள் ரேகாவிற்கு இடதுபுறம் அமர்ந்து உள்ளாள். மாலா என்பவள் ரேகாவிற்கு வலதுபுறம் அமர்ந்து உள்ளாள். ராணி என்பவள் ரேகாவிற்கும் மாலாவிற்கும் நடுவில் அமர்ந்துள்ளாள் எனில் இடதுபுறம் இருந்து 2வதாக இருப்பவர் யார்?

a) ரேகா b) சீதா
c) மாலா d) ராணி

Q.29) கொடுக்கப்பட்ட வார்த்தைகளுக்கு ஏற்ற படம் எது?
பொறியாளர், மரம், பட்டதாரி

a)

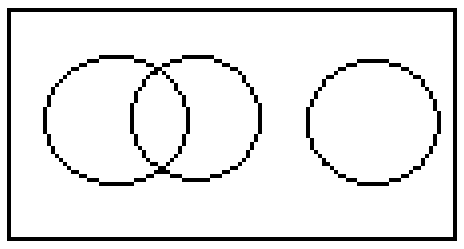

b)

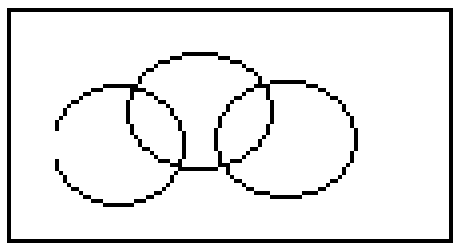

c)

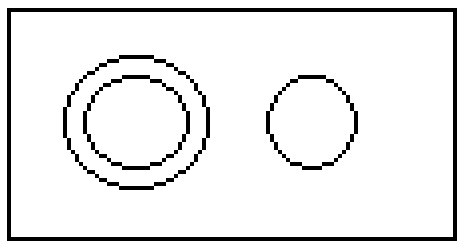

d)

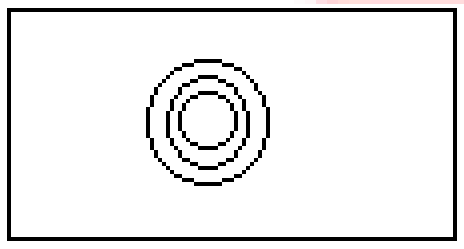

Q.30) ஒரு ரகசிய மொழியில் 123 என்றால் hot filtered coffee என்றும், 356 என்றால் very hot day என்றும், 589 என்றால் day and night என்றும், பொருள் எனில் very என்பதன் ரகசிய மொழி என்ன?

a) 9 b) 5
c) 8 d) 6